نمونه کاربرگ‌های تم سوم ریاضی اوّل دبستان

باسمه تعالیٰ

نام زیبایت: ..... کلاس: ..... تاریخ: .....

نازنینم، به تعداد شکل‌های هر دسته د
اضافه کنیم، چند تا می‌شود؟ به دستی

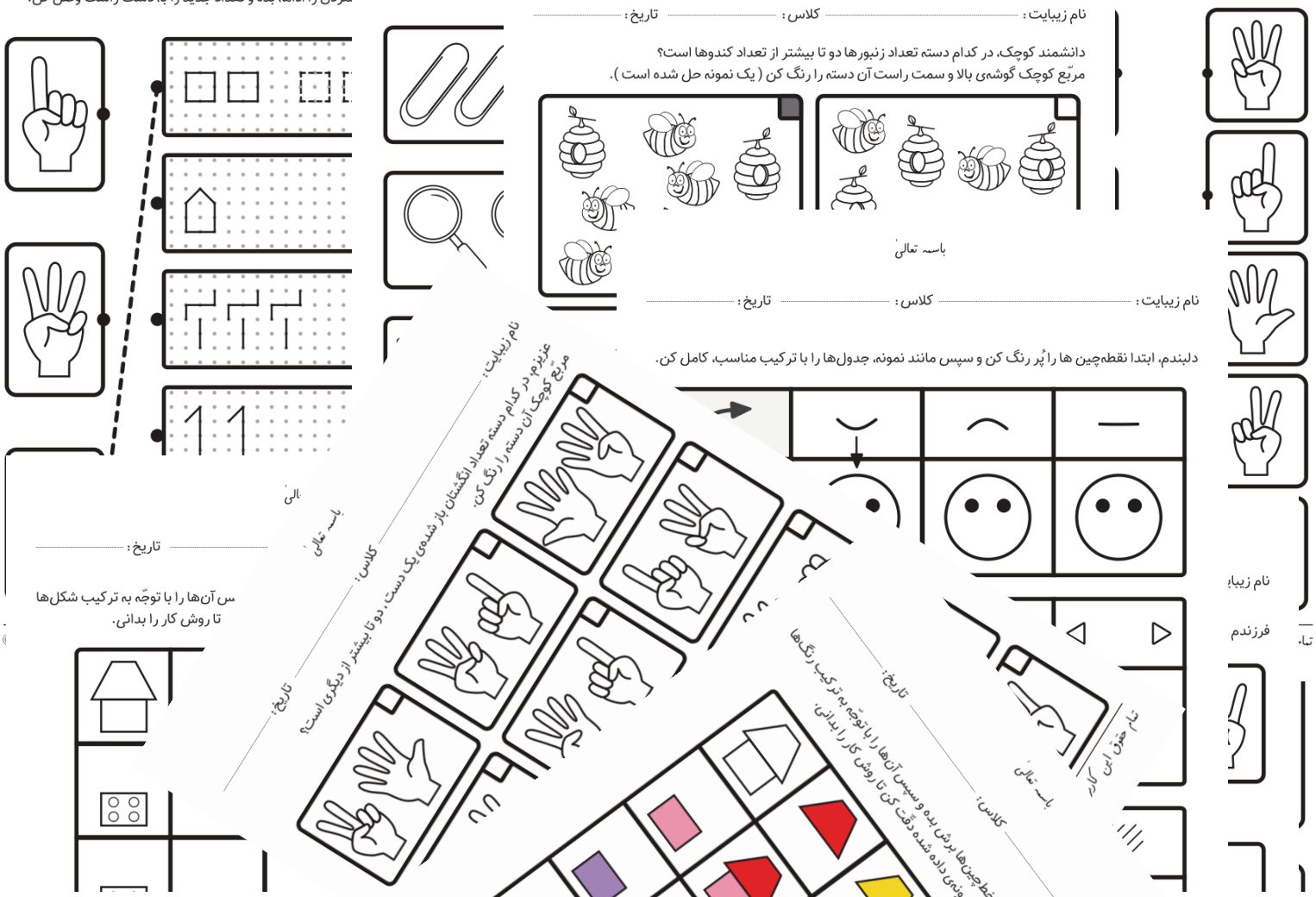

تمام حقوق این کاربرگ برای سایت آموزشی حسین ریسمانی سیلابی محفوظ است. © www.rismani.ir

باسمه تعالیٰ

نام زیبایت: ..... کلاس: ..... تاریخ: .....

دانشمند کوچک، در کدام دسته تعداد زنبورها دو تا بیشتر از تعداد کندوها است؟
مربّع کوچک گوشه‌ی بالا و سمت راست آن دسته را رنگ کن (یک نمونه حل شده است).

باسمه تعالیٰ

نام زیبایت: ..... کلاس: ..... تاریخ: .....

دلبندم، ابتدا نقطه‌چین ها را پُر رنگ کن و سپس مانند نمونه، جدول‌ها را با ترکیب مناسب، کامل کن.

تمام حقوق این کاربرگ برای سایت آموزشی حسین ریسمانی سیلابی محفوظ است. © www.rismani.ir

باسمه تعالیٰ

کلاس: ..... تاریخ: .....

د تاست؟ بشمار و با خط راست به دست چپ وصل کن.
مردن را ادامه بده و تعداد جدید را به دست راست وصل کن.

باسمه تعالیٰ

تاریخ: .....

س آن‌ها را با توجّه به ترکیب شکل‌ها
تا روش کار را بدانی.

تمام حقوق این کاربرگ برای سایت آموزشی حسین ریسمانی سیلابی محفوظ است. © www.rismani.ir

هم وصل کن.







تمام حقوق این کاربرگ برای سایت آموزشی حسین ریسمانی سیلابی محفوظ است. © www.rismani.ir